RÉGION ACADÉMIQUE
LA RÉUNION
Liberté
Égalité
Fraternité

EVALUATIONS COURTES EN SCIENCES			
Niveau :	■ Seconde	☐ Première	☐ Terminale
Module			
Capacités et connaissances			

COMPÉTENCES	■ S'approprier	☐ Analyser	☐ Réaliser	☐ Valider	☐ Communiquer

Type de questions	☐ question flash[1]	■ tâche intermédiaire[2]

Contexte des situations	☐ Vie courante	☐ Professionnel	■ Scientifique	☐ Intra Mathématiques

Niveau de difficulté	☐ 0	☐ 1	■ 2	☐ 3

Pour remplir le réservoir de son fer à repasser, madame Voisin hésite encore entre l'eau de pluie et l'eau déminéralisée. Elle décide de mesurer le pH de ces deux eaux en versant quelques gouttes de chaque eau sur du papier pH.



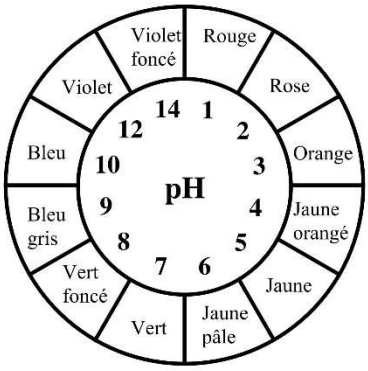

Les résultats obtenus sont résumés dans le tableau ci-dessous.

Eau testée	**Couleur du papier pH**
Eau de pluie	Jaune
Eau déminéralisée	Vert

Déterminer la valeur de pH de l'eau de pluie.

RÉGION ACADÉMIQUE
LA RÉUNION
Liberté
Égalité
Fraternité

EVALUATIONS COURTES EN SCIENCES			
Niveau :	☑ Seconde	☐ Première	☐ Terminale
Module			
Capacités et connaissances			

COMPÉTENCES	☑ S'approprier	☐ Analyser	☐ Réaliser	☐ Valider	☐ Communiquer

Type de questions	☑ question flash[1]	☐ tâche intermédiaire[2]

Contexte des situations	☐ Vie courante	☐ Professionnel	☑ Scientifique	☐ Intra Mathématiques

Niveau de difficulté	☐ 0	☐ 1	☑ 2	☐ 3

Voici trois trajectoires de points pris sur la roue avant d'un char à voile.

>> Trajectoire a



>> Trajectoire b

>> Trajectoire c

Donner le nom de chaque trajectoire.

.....

.....

.....

1. Question flash : activité mentale attendue sur un temps court (20 secondes) Cette tâche peut mobiliser une connaissance, un savoir-faire, un traitement automatique ou réfléchi.

2. Tâche intermédiaire : activité attendue sur un temps plus long qu'une question flash (1 à 2 minutes).